1 Ecris le nombre de voitures de plusieurs façons :

__ + __ + __ = __

__ + __ + __ + __ + __ + __ = __

On peut aussi écrire : __ x __ ou __ x __

2 Voici 12 pommes, Lisa a fait plusieurs paquets.
Complète les calculs:



__ x __



__ x __



__ x __

Problème :

Mathilde est malade. Le médecin lui a dit de prendre 2 cuillères à soupe de sirop pendant 5 jours.
Combien Mathilde va-t-elle devoir prendre de cuillères de sirop?

dessin ou calcul :	phrase réponse :